VOCABULAIRE AUTOUR DU CERCLE

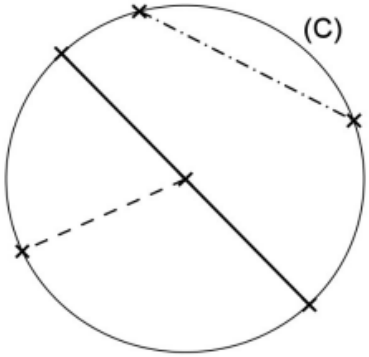

Centre

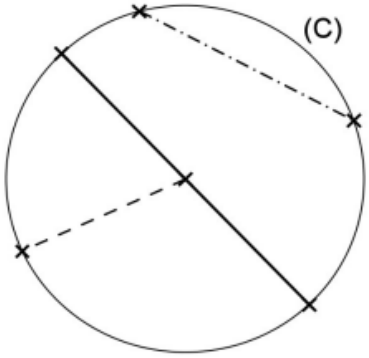

Le **segment** [OA] est **UN** rayon du cercle.

La ***longueur*** OA est ***LE*** rayon du cercle

Rayon

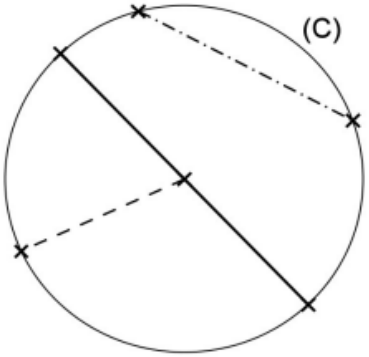

Le **segment** [EF] est **UN** diamètre du cercle.

La ***longueur*** EF est ***LE*** diamètre du cercle

Diamètre

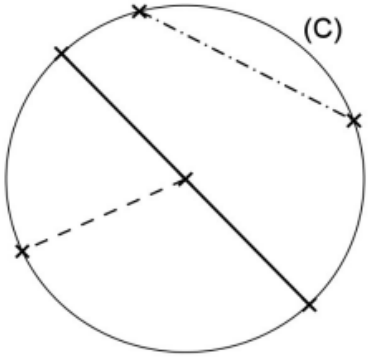

Le **segment** [RS] est **UNE** corde du cercle.

Corde

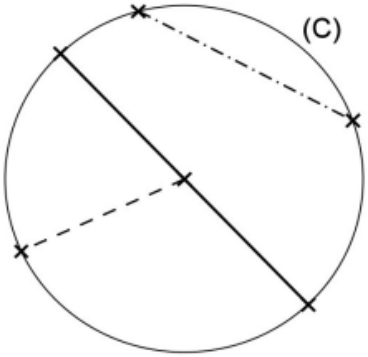

La portion de cercle tracée en jaune est un **arc de cercle**. *(Il existe deux arcs de cercle dont les extrémités sont R et S. L'un d'eux est le petit arc noté $\widehat{RS}$, l'autre est le grand arc noté : $\overset{\frown}{RS}$)*

Arc